Name: _____



Es ist ___ Uhr.

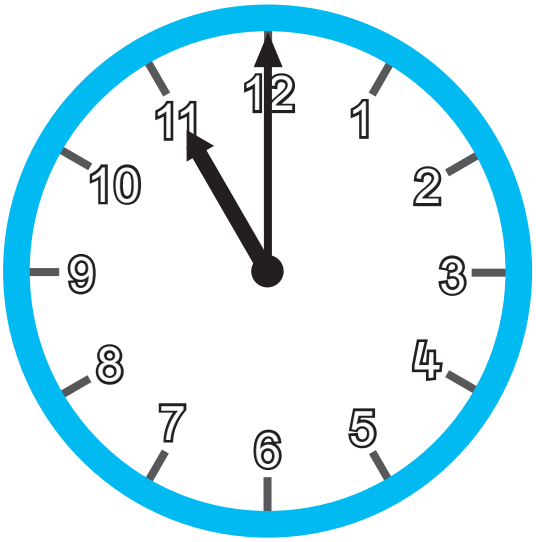

Es ist ___ Uhr.

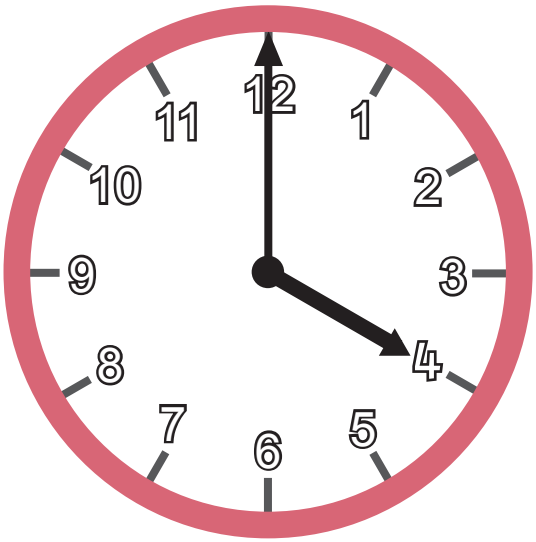

Es ist ___ Uhr.



Es ist ___ Uhr.

Der Stundenzeiger zeigt auf eine Zahl. Schreibe diese Zahl nach.
Trage die Uhrzeit im Text ein.

© 2021 Anja Frenzel, www.glückspunkt-methode.com

Name: _____



Es ist ___ Uhr.

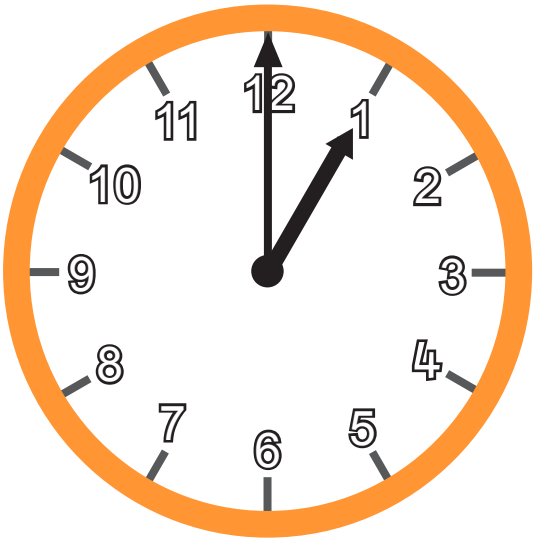

Es ist ___ Uhr.

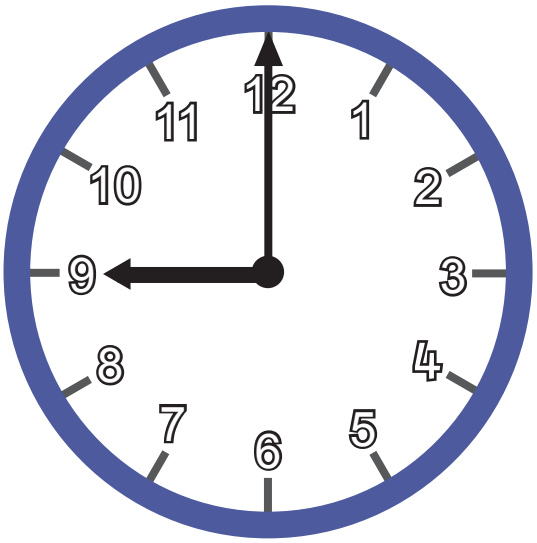

Es ist ___ Uhr.

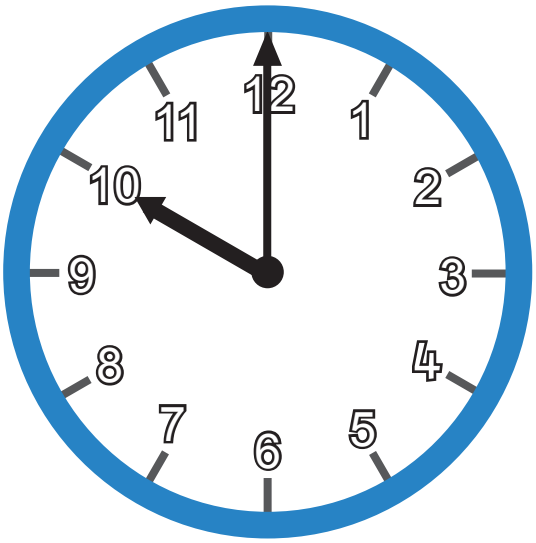

Es ist ___ Uhr.

Der Stundenzeiger zeigt auf eine Zahl. Schreibe diese Zahl nach.
Trage die Uhrzeit im Text ein.

© 2021 Anja Frenzel, www.glückspunkt-methode.com

Name: _____

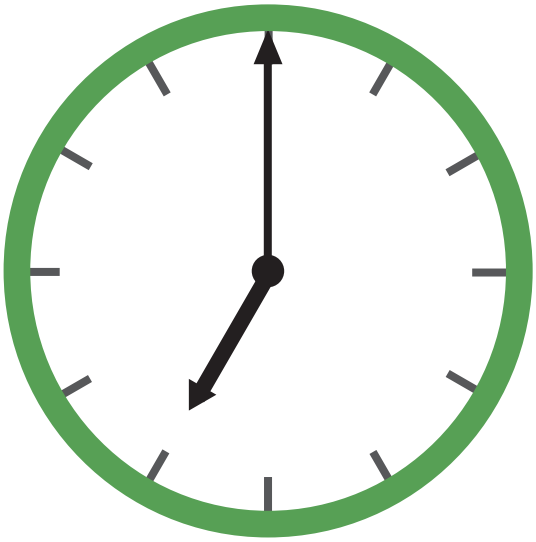

Es ist ___ Uhr.

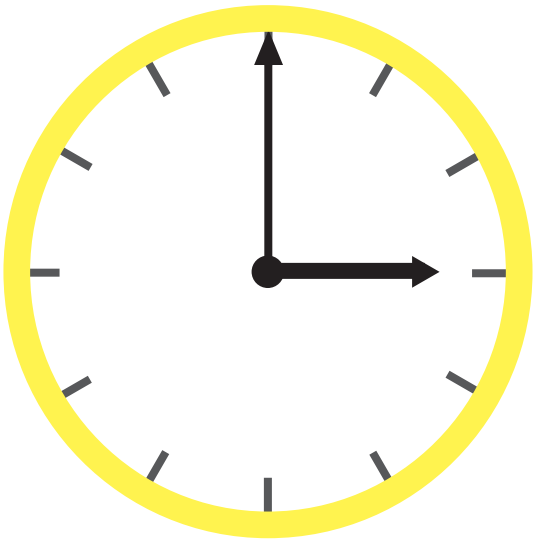

Es ist ___ Uhr.



Es ist ___ Uhr.

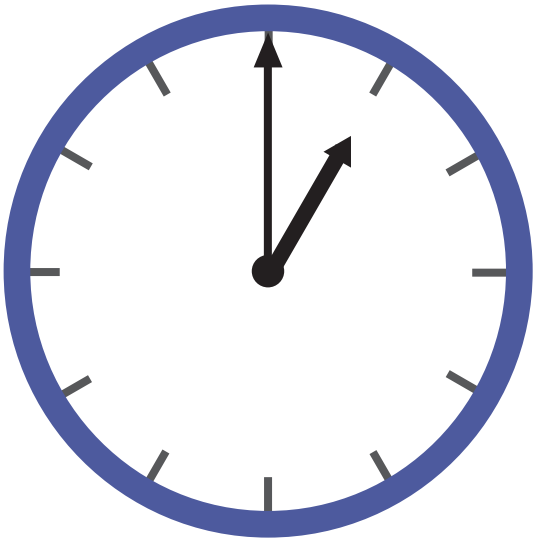

Es ist ___ Uhr.

Der Stundenzeiger zeigt auf eine Zahl. Schreibe diese Zahl nach.
Trage die Uhrzeit im Text ein.

© 2021 Anja Frenzel, www.glückspunkt-methode.com

Name: _____

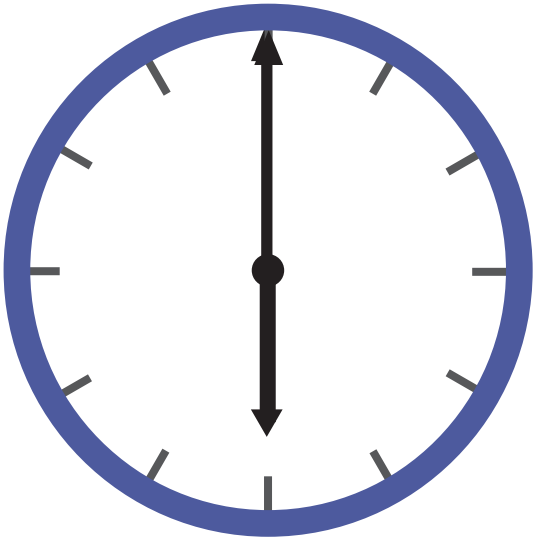

Es ist ___ Uhr.



Es ist ___ Uhr.

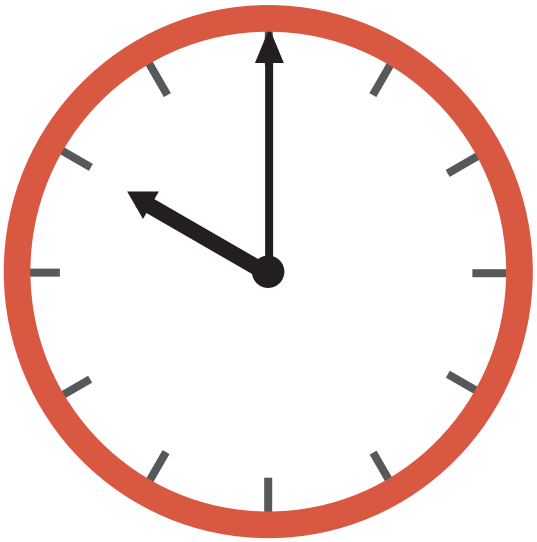

Es ist ___ Uhr.



Es ist ___ Uhr.

Der Stundenzeiger zeigt auf einen Strich. Welche Zahl steht dort sonst?
Schreibe diese Zahl in die Uhr. Trage die Uhrzeit im Text ein.

© 2021 Anja Frenzel, www.glückspunkt-methode.com

Name: _____



Es ist 7 Uhr.

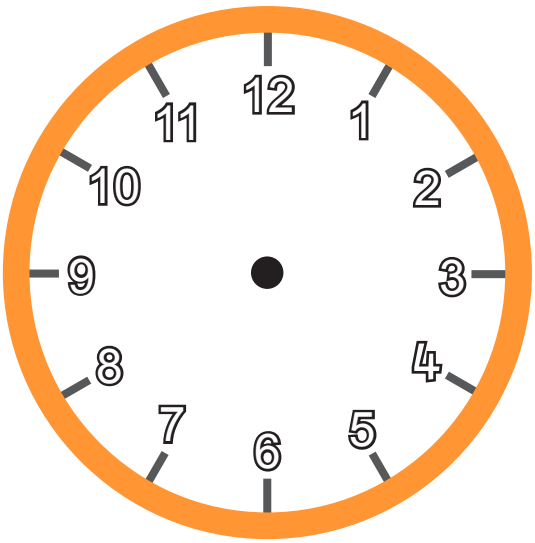

Es ist 11 Uhr.

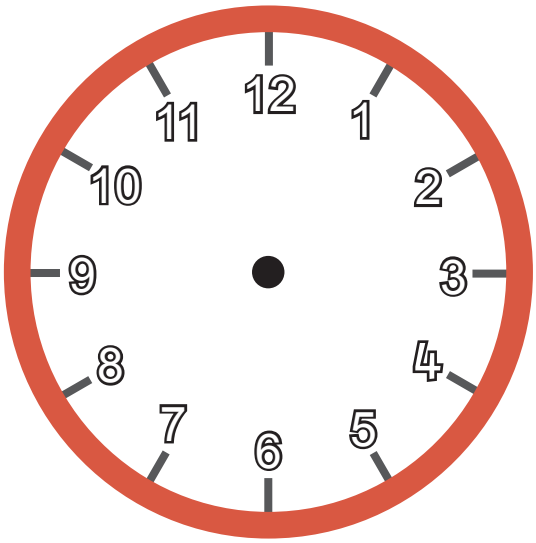

Es ist 5 Uhr.

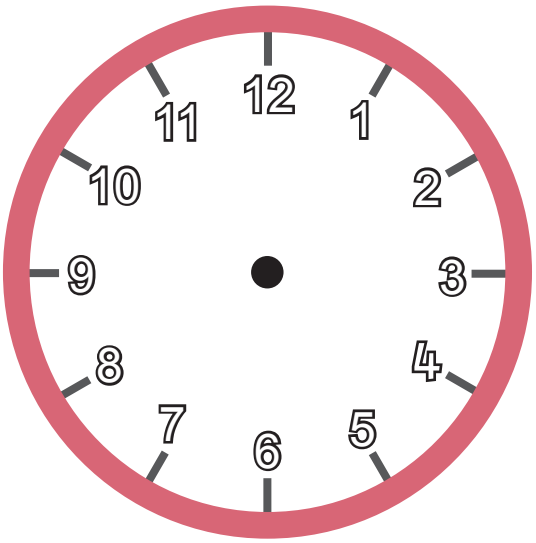

Es ist 10 Uhr.

Trage die Uhrzeit mit den Zeigern ein.
Möchtest du noch die Zahlen nachschreiben?

© 2021 Anja Frenzel, www.glückspunkt-methode.com

Name: _____



Es ist 3 Uhr.



Es ist 9 Uhr.



Es ist 10 Uhr.



Es ist 5 Uhr.

Kannst du die Uhrzeit auch eintragen, wenn das Zifferblatt keine Zahlen zeigt? Versuche es.

© 2021 Anja Frenzel, www.glückspunkt-methode.com

Name: _____



Es ist 9 Uhr.

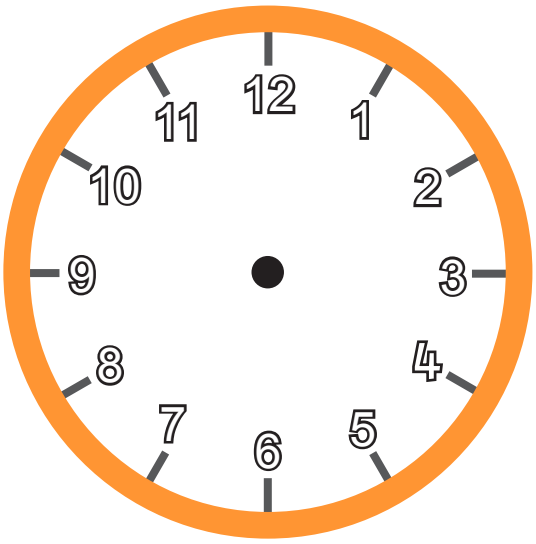

Es ist 3 Uhr.



Es ist 8 Uhr.

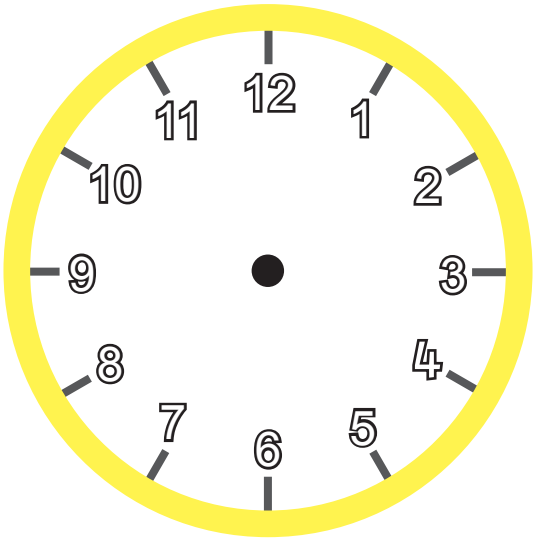

Es ist 4 Uhr.

Trage die Uhrzeit ein.
Möchtest du noch die Zahlen nachschreiben?

© 2021 Anja Frenzel, www.glückspunkt-methode.com

Name: _____

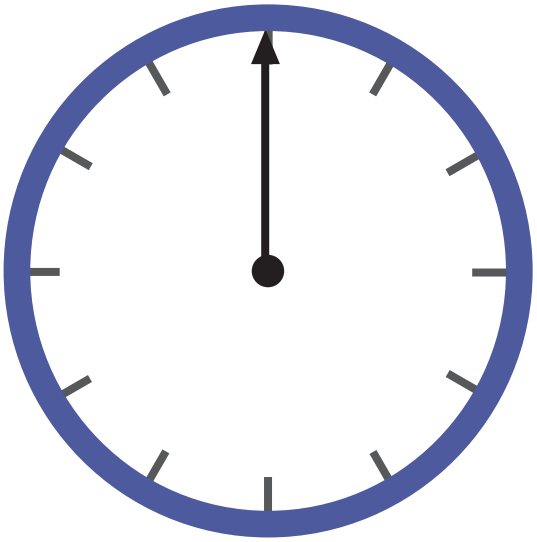

Es ist 6 Uhr.



Es ist 2 Uhr.



Es ist 11 Uhr.

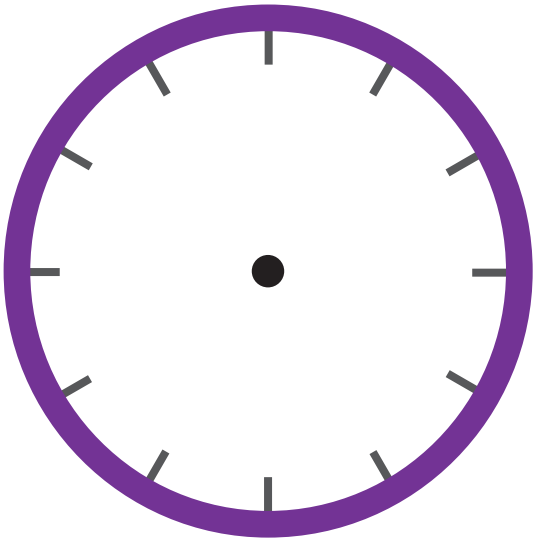

Es ist 12 Uhr.

Kannst du die Uhrzeit auch eintragen, wenn das Zifferblatt keine Zahlen zeigt? Versuche es.

© 2021 Anja Frenzel, www.glückspunkt-methode.com